(1) Írjuk fel százalékban az adott törtrészeket!

a) $\frac{4}{25}$ rész = $\frac{\square}{100}$ rész = $\square$ %

b) $\frac{7}{20}$ rész = $\frac{\square}{100}$ rész = $\square$ %

c) $\frac{9}{5}$ rész = $\frac{\square}{100}$ rész = $\square$ %

d) $1\frac{43}{100}$ rész = $\frac{\square}{100}$ rész = $\square$ %

e) $\frac{7}{8}$ rész = $\frac{\square}{1000}$ rész = $\square$ %

f) $\frac{113}{250}$ rész = $\frac{\square}{1000}$ rész = $\square$ %

(2) Fejezzük ki százalékban a tizedes tört alakban megadott törtrészeket!

a) 0,75 rész = $\square$ % *b)* 0,57 rész = $\square$ % *c)* 2,5 rész = $\square$ % *d)* 1,225 rész = $\square$ %

(3) Írjuk fel az alábbi százalékokat tovább már nem egyszerűsíthető törtrész alakban, majd tizedes tört alakban!

a) 20% = ... rész = ... rész = ... rész

b) 25% = ... rész = ... rész = ... rész

c) 5% = ... rész = ... rész = ... rész

d) 150% = ... rész = ... rész = ... rész

e) 1,5% = ... rész = ... rész = ... rész

f) 0,6% = ... rész = ... rész = ... rész

(4) Színezzük az alábbi téglalapok adott százalékát!

a) 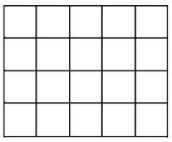
50%

b) 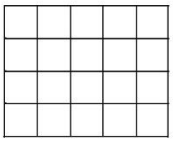
25%

c) 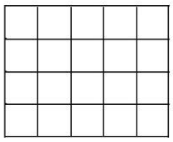
10%

d) 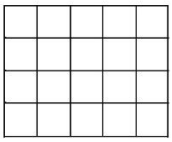
75%

e) 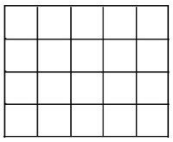
5%

f) 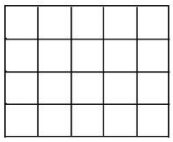
80%

(5) Nem minden tört bővíthető század, ezred stb. nevezőjű törtté. Ha az ilyen törtrészeket akarjuk átírni százalék alakba, akkor úgy járunk el, hogy a tört alakban felírt számot tizedes törtté alakítjuk. Ahány századrész a tizedes tört, annyi százalék a törtrész!

Pl.: $\frac{5}{6}$ rész ≈ 0,833 rész ≈ 83,3%

$\frac{2}{3}$ rész ≈ 0,667 rész ≈ 66,7%

A kerekítés szabályainak megfelelően dolgozunk.

A fentiek alapján írjuk fel az adott törtrészeket százalék alakban!

a) $\frac{7}{3}$ rész ≈ $\square$ % *c)* $\frac{5}{11}$ rész ≈ $\square$ %

b) $\frac{2}{9}$ rész ≈ $\square$ % *d)* $\frac{7}{18}$ rész ≈ $\square$ %

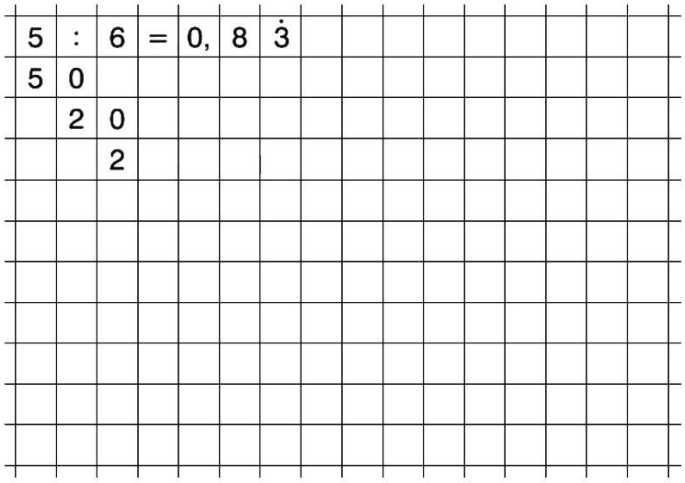

(6) Az alábbi téglalapoknak hány %-a van, illetve nincs színezve?

a) 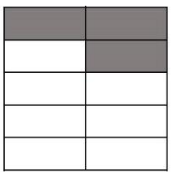
színezve van: $\square$ %
nincs színezve: $\square$ %

b) 
színezve van: $\square$ %
nincs színezve: $\square$ %

c) 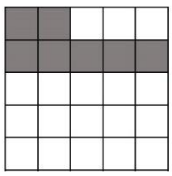
színezve van: $\square$ %
nincs színezve: $\square$ %